8 класс геометрия

Векторы задание 3

Вариант 1

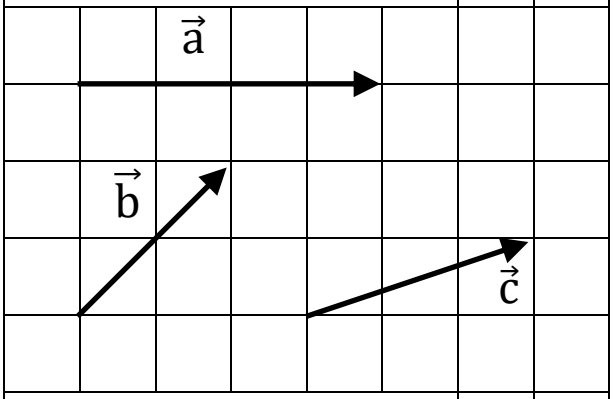

На клетчатой бумаге постройте векторы:

$\vec{a} + \vec{b}$

$\vec{a} - \vec{b}$

$\vec{a} + \vec{c}$

Вариант 2

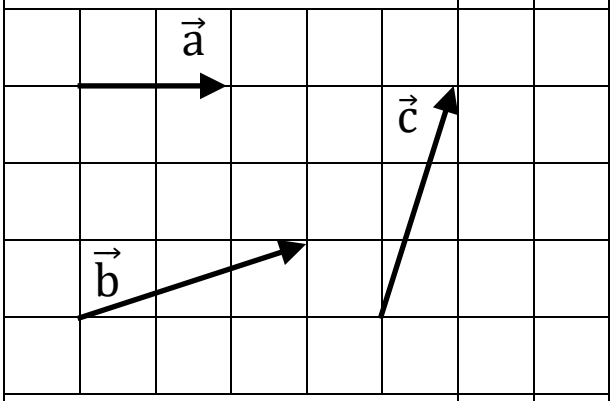

На клетчатой бумаге постройте векторы:

$\vec{a} + \vec{b}$

$\vec{a} - \vec{b}$

$\vec{a} + \vec{c}$

Вариант 3

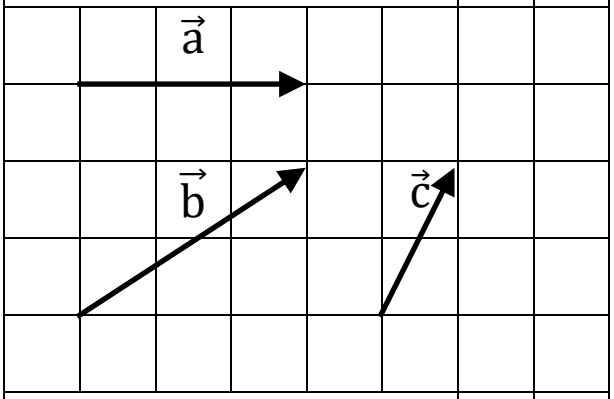

На клетчатой бумаге постройте векторы:

$\vec{a} + \vec{b}$

$\vec{a} - \vec{b}$

$\vec{a} + \vec{c}$

Вариант 4

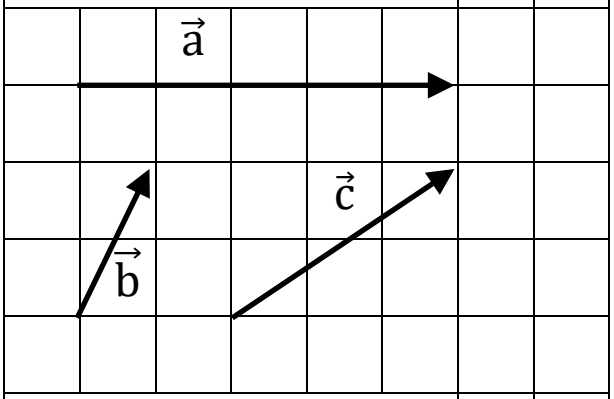

На клетчатой бумаге постройте векторы:

$\vec{a} + \vec{b}$

$\vec{a} - \vec{b}$

$\vec{a} + \vec{c}$

Вариант 5

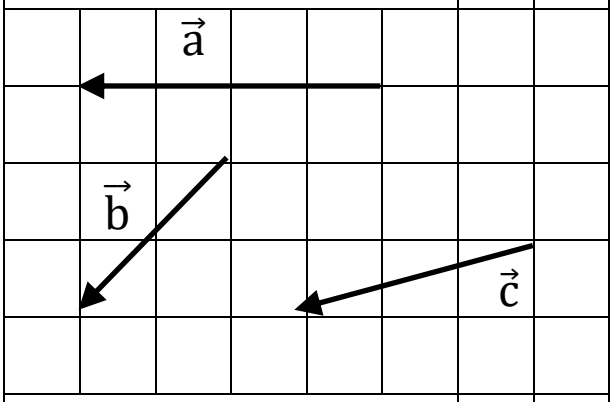

На клетчатой бумаге постройте векторы:

$\vec{a} + \vec{b}$

$\vec{a} - \vec{b}$

$\vec{a} + \vec{c}$

Вариант 6

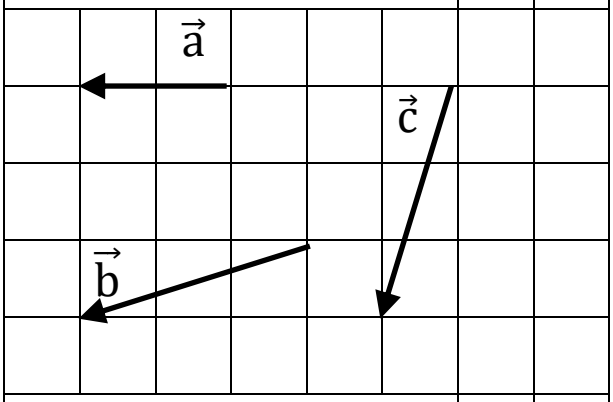

На клетчатой бумаге постройте векторы:

$\vec{a} + \vec{b}$

$\vec{a} - \vec{b}$

$\vec{a} + \vec{c}$

Вариант 7

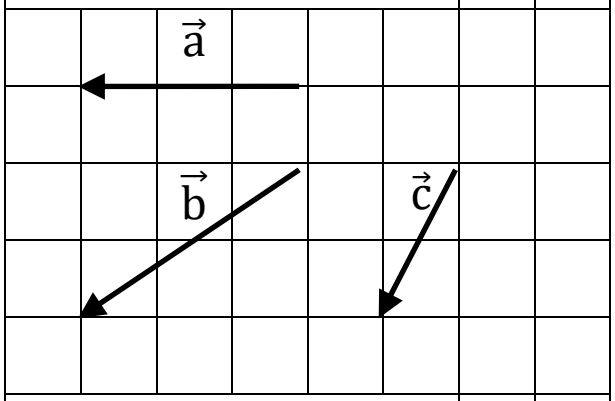

На клетчатой бумаге постройте векторы:

$\vec{a} + \vec{b}$

$\vec{a} - \vec{b}$

$\vec{a} + \vec{c}$

Вариант 8

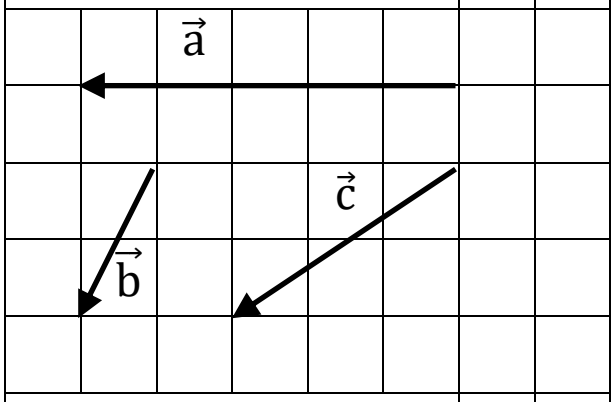

На клетчатой бумаге постройте векторы:

$\vec{a} + \vec{b}$

$\vec{a} - \vec{b}$

$\vec{a} + \vec{c}$

Вариант 9

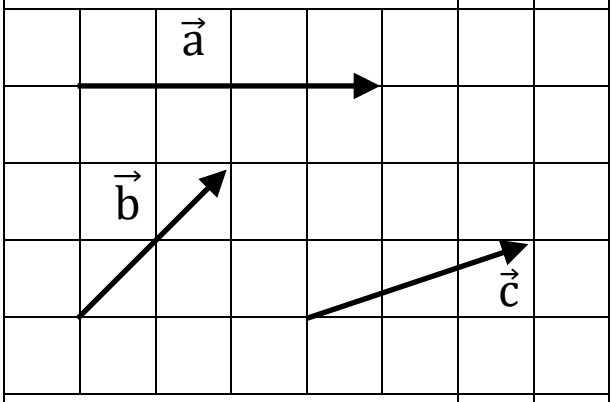

На клетчатой бумаге постройте векторы:

$\vec{c} + \vec{b}$

$\vec{a} - \vec{c}$

$c + \vec{a}$

Вариант 10

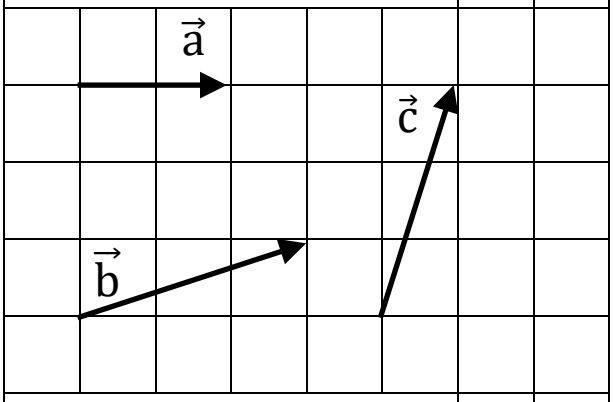

На клетчатой бумаге постройте векторы:

$\vec{c} + \vec{b}$

$\vec{a} - \vec{c}$

$c + \vec{a}$

Вариант 11

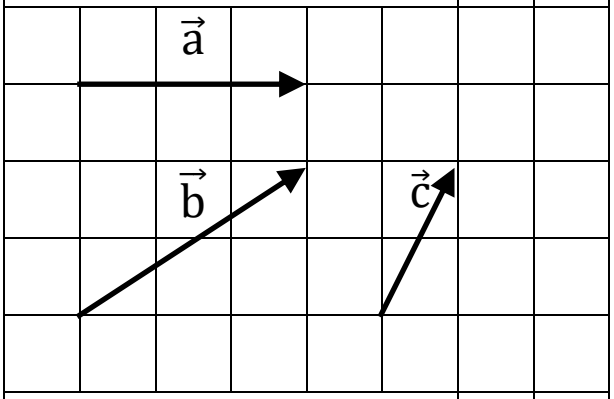

На клетчатой бумаге постройте векторы:

$\vec{c} + \vec{b}$

$\vec{a} - \vec{c}$

$c + \vec{a}$

Вариант 12

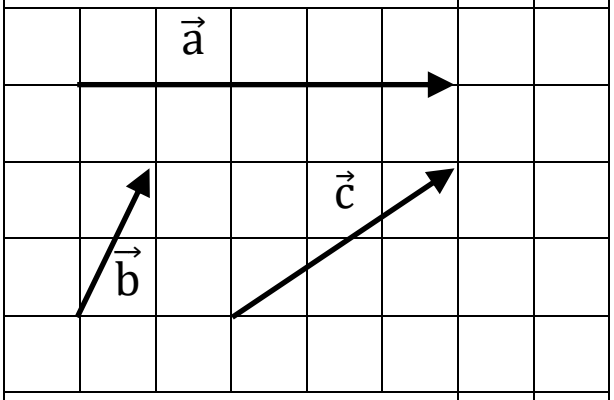

На клетчатой бумаге постройте векторы:

$\vec{c} + \vec{b}$

$\vec{a} - \vec{c}$

$c + \vec{a}$

Вариант 13

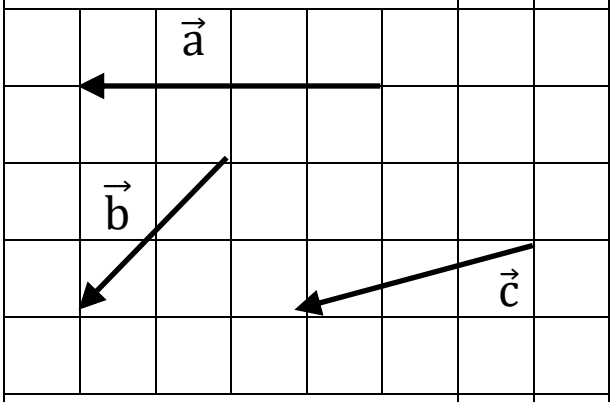

На клетчатой бумаге постройте векторы:

$\vec{c} + \vec{b}$

$\vec{a} - \vec{c}$

$c + \vec{a}$

Вариант 14

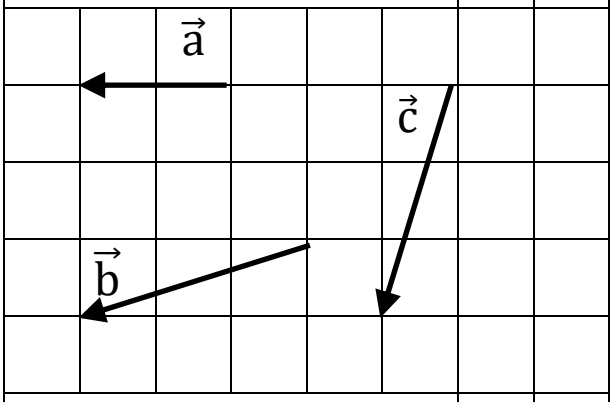

На клетчатой бумаге постройте векторы:

$\vec{c} + \vec{b}$

$\vec{a} - \vec{c}$

$c + \vec{a}$

Вариант 15

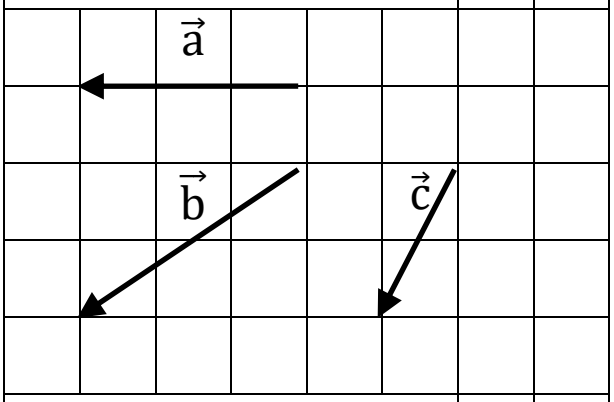

На клетчатой бумаге постройте векторы:

$\vec{c} + \vec{b}$

$\vec{a} - \vec{c}$

$c + \vec{a}$

Вариант 16

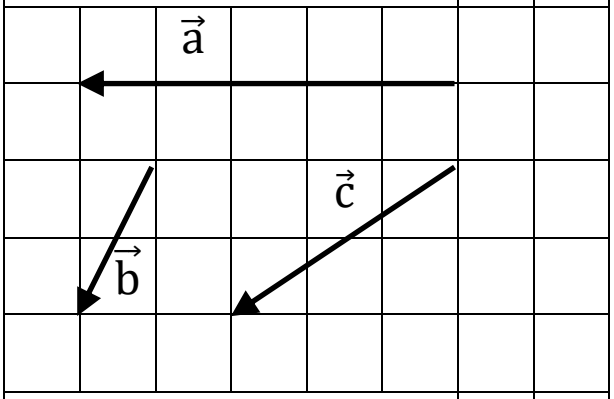

На клетчатой бумаге постройте векторы:

$\vec{c} + \vec{b}$

$\vec{a} - \vec{c}$

$c + \vec{a}$

Вариант 17

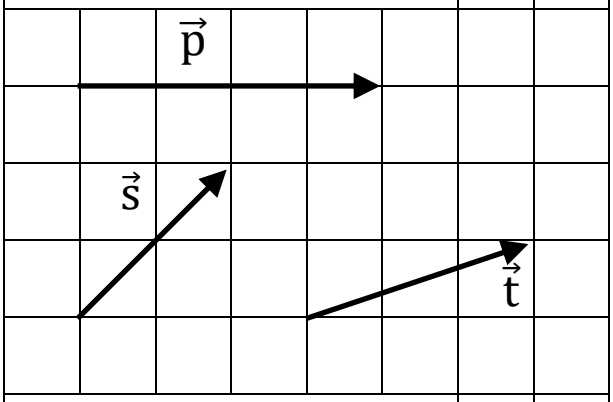

На клетчатой бумаге постройте векторы:

$\vec{p} + \vec{s}$

$\vec{p} - \vec{s}$

$\vec{p} + \vec{t}$

Вариант 18

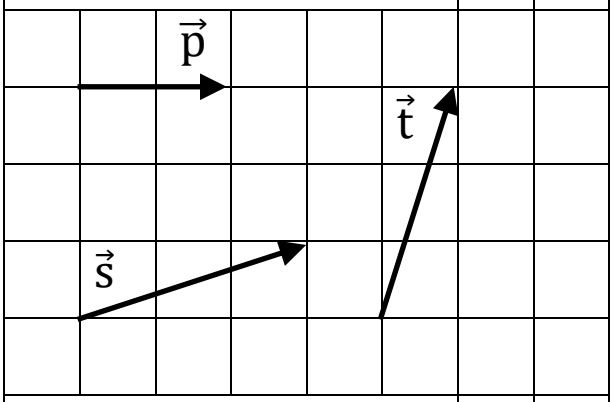

На клетчатой бумаге постройте векторы:

$\vec{p} + \vec{s}$

$\vec{p} - \vec{s}$

$\vec{p} + \vec{t}$

Вариант 19

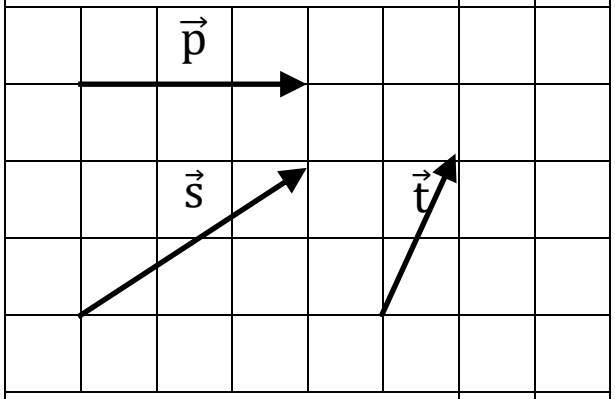

На клетчатой бумаге постройте векторы:

$\vec{p} + \vec{s}$

$\vec{p} - \vec{s}$

$\vec{p} + \vec{t}$

Вариант 20

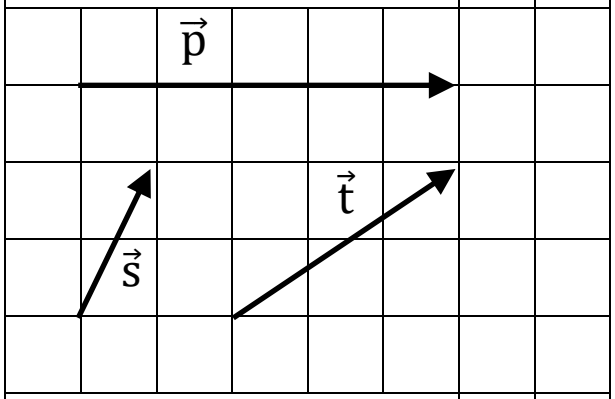

На клетчатой бумаге постройте векторы:

$\vec{p} + \vec{s}$

$\vec{p} - \vec{s}$

$\vec{p} + \vec{t}$

Вариант 21

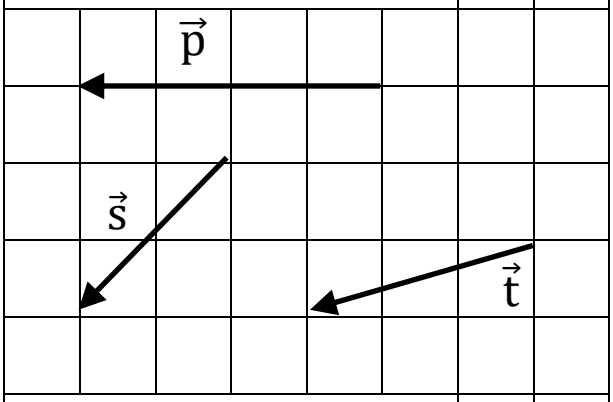

На клетчатой бумаге постройте векторы:

$\vec{p} + \vec{s}$

$\vec{p} - \vec{s}$

$\vec{p} + \vec{t}$

Вариант 22

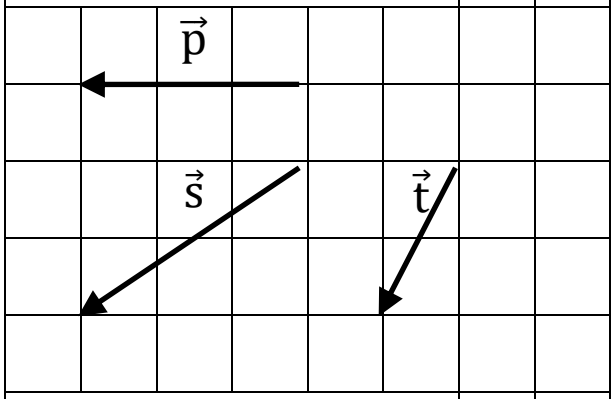

На клетчатой бумаге постройте векторы:

$\vec{p} + \vec{s}$

$\vec{p} - \vec{s}$

$\vec{p} + \vec{t}$

Вариант 23

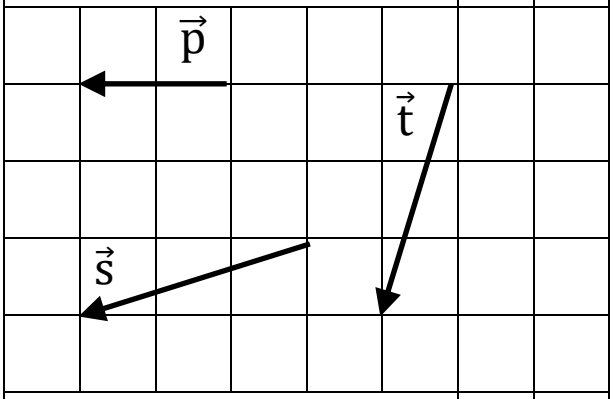

На клетчатой бумаге постройте векторы:

$\vec{p} + \vec{s}$

$\vec{p} - \vec{s}$

$\vec{p} + \vec{t}$

Вариант 24

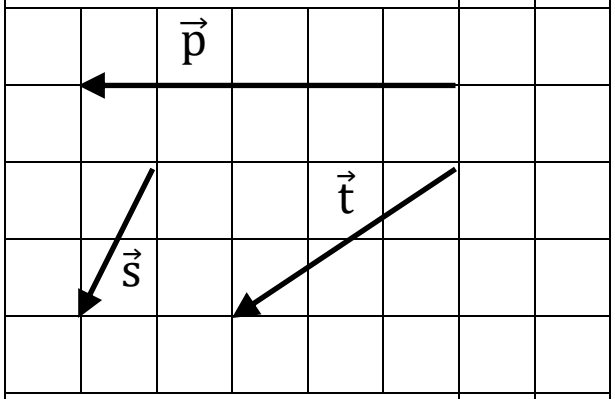

На клетчатой бумаге постройте векторы:

$\vec{p} + \vec{s}$

$\vec{p} - \vec{s}$

$\vec{p} + \vec{t}$

Вариант 25

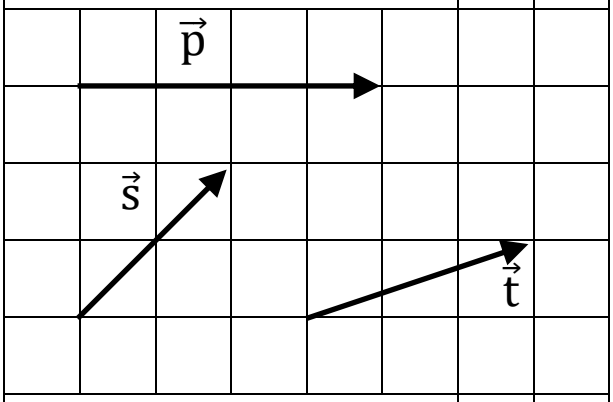

На клетчатой бумаге постройте векторы:

$\vec{t} + \vec{s}$

$\vec{p} - \vec{t}$

$t + \vec{p}$

Вариант 26

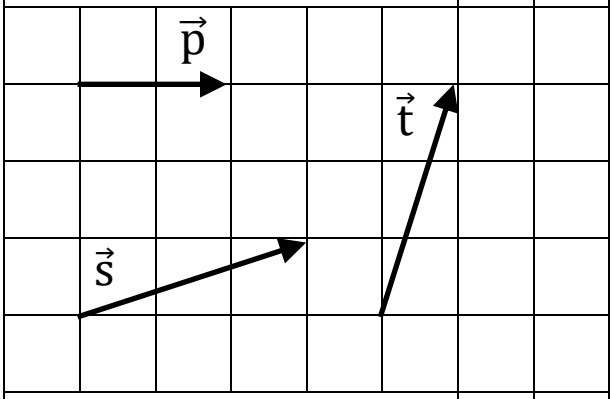

На клетчатой бумаге постройте векторы:

$\vec{t} + \vec{s}$

$\vec{p} - \vec{t}$

$t + \vec{p}$

Вариант 27

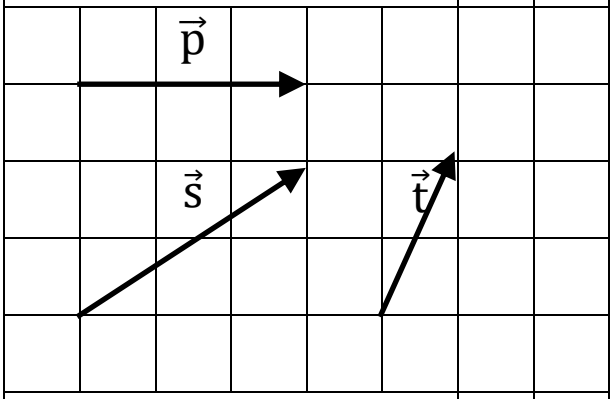

На клетчатой бумаге постройте векторы:

$\vec{t} + \vec{s}$

$\vec{p} - \vec{t}$

$t + \vec{p}$

Вариант 28

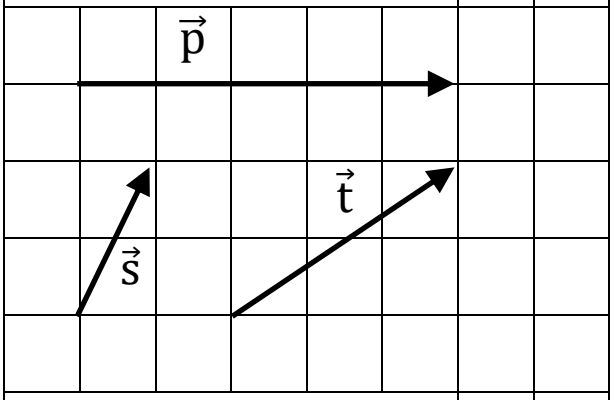

На клетчатой бумаге постройте векторы:

$\vec{t} + \vec{s}$

$\vec{p} - \vec{t}$

$t + \vec{p}$

Вариант 29

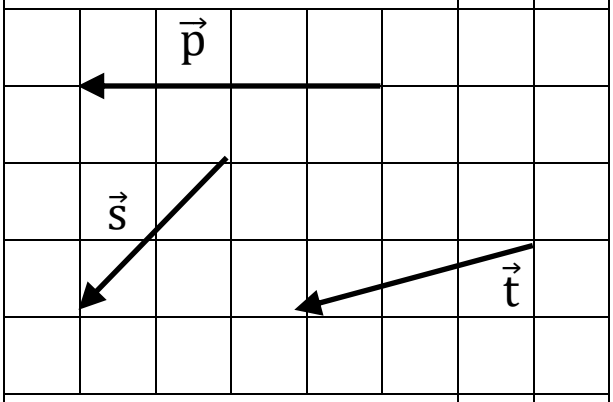

На клетчатой бумаге постройте векторы:

$\vec{t} + \vec{s}$

$\vec{p} - \vec{t}$

$t + \vec{p}$

Вариант 30

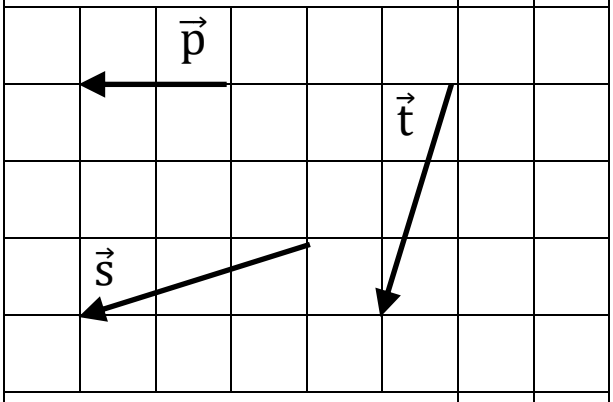

На клетчатой бумаге постройте векторы:

$\vec{t} + \vec{s}$

$\vec{p} - \vec{t}$

$t + \vec{p}$

Вариант 31

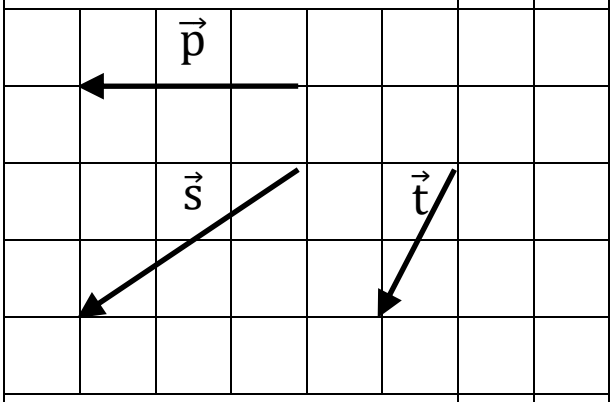

На клетчатой бумаге постройте векторы:

$\vec{t} + \vec{s}$

$\vec{p} - \vec{t}$

$t + \vec{p}$

Вариант 32

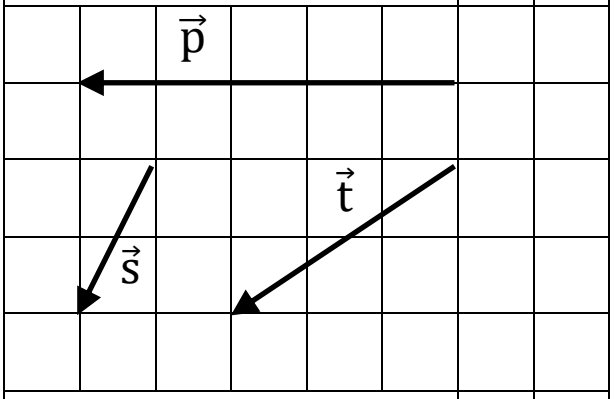

На клетчатой бумаге постройте векторы:

$\vec{t} + \vec{s}$

$\vec{p} - \vec{t}$

$t + \vec{p}$